Прочитайте внимательно текст и выполните задание.

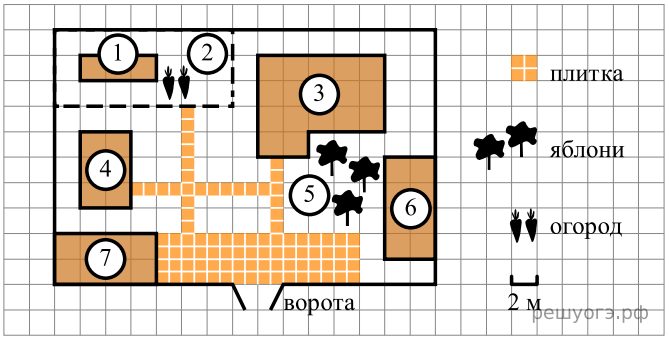

На плане изображено домохозяйство по адресу: с. Авдеево, 3-й Поперечный пер., д. 13 (сторона каждой клетки на плане равна 2 м). Участок имеет прямоугольную форму. Выезд и въезд осуществляются через единственные ворота.

При входе на участок справа от ворот находится баня, а слева — гараж, отмеченный на плане цифрой 7. Площадь, занятая гаражом, равна 32 кв. м.

Жилой дом находится в глубине территории. Помимо гаража, жилого дома и бани, на участке имеется сарай (подсобное помещение), расположенный рядом с гаражом, и теплица, построенная на территории огорода (огород отмечен цифрой 2). Перед жилым домом имеются яблоневые посадки.

Все дорожки внутри участка имеют ширину 1 м и вымощены тротуарной плиткой размером 1 м × 1 м. Между баней и гаражом имеется площадка площадью 64 кв. м, вымощенная такой же плиткой.

К домохозяйству подведено электричество. Имеется магистральное газоснабжение.

1. Тротуарная плитка продается в упаковках по 4 штуки. Сколько упаковок плитки понадобилось, чтобы выложить все дорожки и площадку перед гаражом?

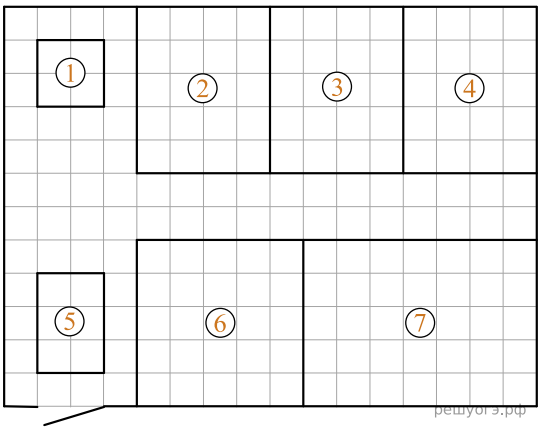

Владимир купил участок, чтобы заняться фермерством. План его фермы изображен на рисунке, сторона каждой клетки равна 2 м. Ферму планируется обнести забором. Вход будет осуществляться через единственные ворота. Прямо перед воротами предполагается построить жилой дом. За ним будет построен гараж с отдельным въездом. Наибольшее поле будет отведено под посев картофеля. На поле рядом с ним планируется посадить кукурузу. Поле, обозначенное на плане цифрой 3, планируется засеять морковью. Поле, ближайшее к гаражу, планируется отвести под капусту. Оставшееся поле будет засеяно репой. Пустое пространство между полями планируется засыпать гравием. Чтобы засыпать 4 м^2 гравием, требуется 0,2 м^3 материала. Также Владимир планирует купить трактор для хозяйственных нужд.

2. Гравий продается в больших мешках по 2 м^3. Сколько мешков с гравием понадобится для того, чтобы засыпать пространство между полями?

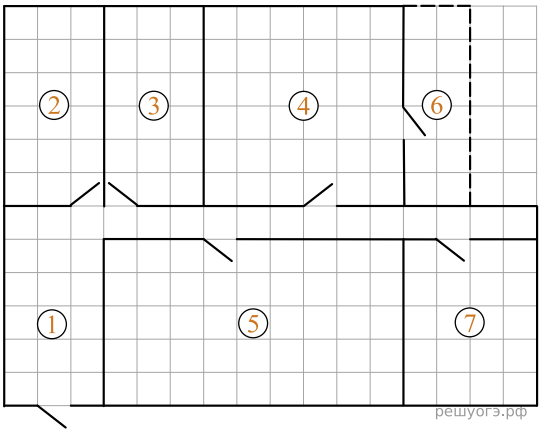

На плане изображена схема квартиры (сторона каждой клетки на схеме равна 1 м). Вход и выход осуществляются через единственную дверь.

При входе в квартиру расположен коридор, отмеченный цифрой 1. Напротив входа расположена туалетная комната, а справа от нее — ванная комната.

Гостиная занимает наибольшую площадь в квартире, а справа от нее находится кухня. Прямо перед гостиной находится детская. Из детской можно попасть на балкон, отмеченный цифрой 6.

Потолок в гостиной планируется покрасить в красный цвет. Для покраски одного 1 м^2 потолка требуется 0,25 л краски.

В квартире планируется установить счетчик электроэнергии. Имеется возможность установить однотарифный или двухтарифный счетчик.

3. Краска продается в банках по 3 л. Сколько банок краски требуется купить, чтобы покрасить потолок в гостиной?

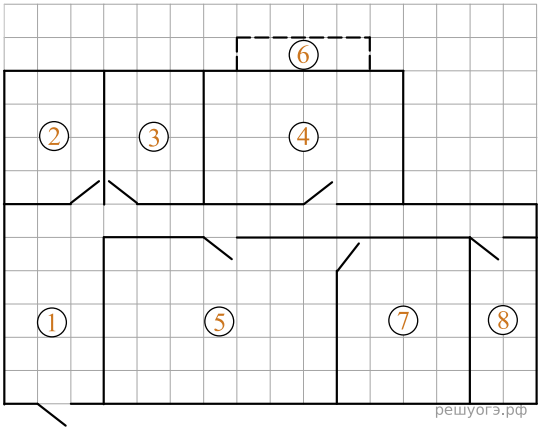

На плане изображена схема квартиры (сторона каждой клетки на схеме равна 1 м). Вход и выход осуществляются через единственную дверь.

При входе в квартиру расположен коридор, отмеченный цифрой 1. Перед входом в квартиру располагается ванная комната, а справа от нее — санузел.

Гостиная занимает наибольшую площадь в квартире, из гостиной можно попасть в детскую комнату. Также в квартире есть кухня, из которой можно попасть на балкон, отмеченный цифрой 6. В конце коридора находится кладовая комната, имеющая площадь 10 м^2.

Потолок в ванной комнате и санузле планируется покрасить в белый цвет. Для покраски одного 1 м^2 потолка требуется 0,2 л краски.

В квартире стоит однотарифный счетчик электроэнергии. Имеется возможность установить двухтарифный счетчик.

4. Краска продается в банках по 2 л. Сколько банок краски требуется купить, чтобы покрасить потолок в ванной комнате и санузле?

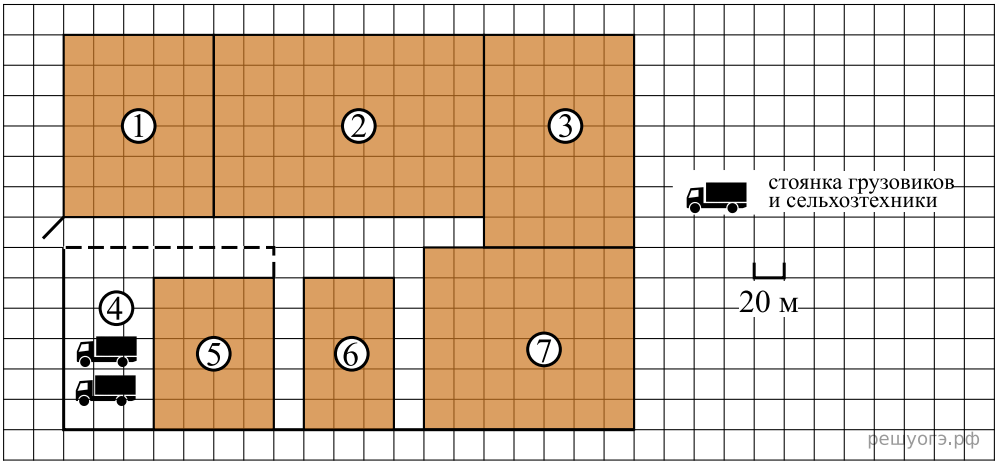

На плане изображено плодоовощное хозяйство, расположенное на территории прямоугольной формы (сторона каждой клетки на плане равна 20 м). Въезд и выезд осуществляются через единственные ворота.

При входе на территорию хозяйства слева от ворот находится кукурузное поле. Рядом с ним расположен яблоневый сад. Также имеется цех по переработке овощей и фруктов, расположенный рядом с полем, засеянным капустой. При входе справа от ворот находится стоянка для грузовиков и сельхозтехники. На территории стоянки расположен склад готовой продукции. Участок с теплицами, в которых выращивают клубнику, граничит с яблоневым садом и капустным полем. К хозяйству подведено электричество.

9. Урожайность кукурузы в этом хозяйстве в среднем составила 4 тонны с одного гектара земли. Цех по переработке выпускает банки консервированной кукурузы массой нетто основного продукта 280 грамм каждая. Какое максимальное количество банок кукурузы выпустил цех?

Примечание. 1 га = 10 000 м^2.

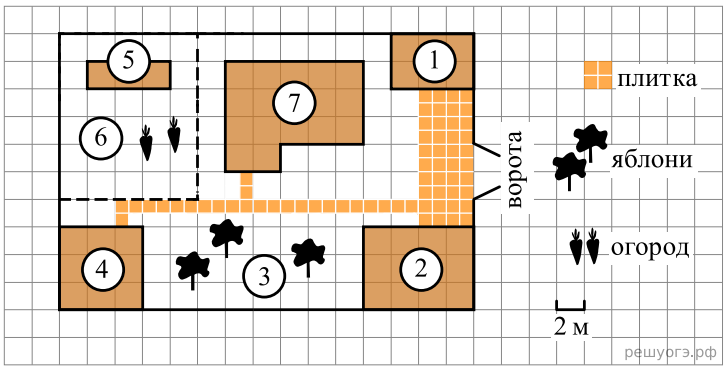

На плане изображен дачный участок по адресу: п. Сосновка, ул. Зеленая, д. 19 (сторона каждой клетки на плане равна 2 м). Участок имеет прямоугольную форму. Выезд и въезд осуществляются через единственные ворота.

При входе на участок слева от ворот находится гараж. Справа от ворот находится сарай площадью 24 кв. м, а чуть подальше — жилой дом. Напротив жилого дома расположены яблоневые посадки. Также на участке есть баня, к которой ведет дорожка, выложенная плиткой, и огород с теплицей внутри (огород отмечен на плане цифрой 6).

Все дорожки внутри участка имеют ширину 1 м и вымощены тротуарной плиткой размером $1\text{м} \times 1\text{м}$. Между гаражом и сараем находится площадка, вымощенная такой же плиткой.

К участку подведено электричество. Имеется магистральное газоснабжение.

10. Плитки для садовых дорожек продаются в упаковках по 10 штук. Сколько упаковок плиток понадобилось, чтобы выложить все дорожки и площадку между сараем и гаражом?

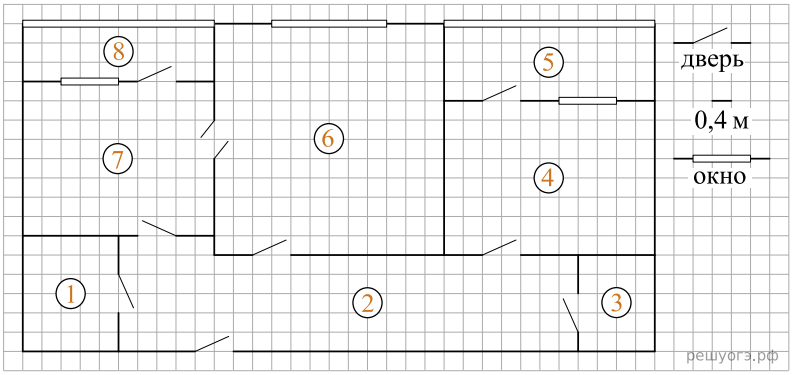

На рисунке изображен план двухкомнатной квартиры в многоэтажном жилом доме. Сторона одной клетки на плане соответствует 0,4 м, а условные обозначения двери и окна приведены в правой части рисунка.

Вход в квартиру находится в коридоре. Слева от входа в квартиру находится санузел, а в противоположном конце коридора — дверь в кладовую. Рядом с кладовой находится спальня, из которой можно пройти на одну из застекленных лоджий. Самое большое по площади помещение — гостиная, откуда можно попасть в коридор и на кухню. Из кухни также можно попасть на застекленную лоджию.

11. Плитка для пола размером 40 см на 40 см продается в упаковках по 12 штук. Сколько упаковок плитки понадобится, чтобы выложить пол санузла?

В горных районах, особенно в южных широтах с влажным климатом, земледельцы на склонах гор устраивают террасы. Земледельческие террасы — это горизонтальные площадки, напоминающие ступени. Во время дождя вода стекает с верхних террас вниз по специальным каналам. Поэтому почва на террасах не размывается и урожай не страдает. Медленный сток воды с вершины склона вниз с террасы на террасу позволяет выращивать даже влаголюбивые культуры. В Юго-Восточной Азии террасное земледелие широко применяется для производства риса, а в Средиземноморье — для выращивания винограда и оливковых деревьев. Возделывание культур на террасах повышает урожайность, но требует тяжелого ручного труда.

Земледелец владеет несколькими участками, один из которых расположен на склоне холма. Ширина участка 20 м, а верхняя точка находится на высоте 10 м от подножия.

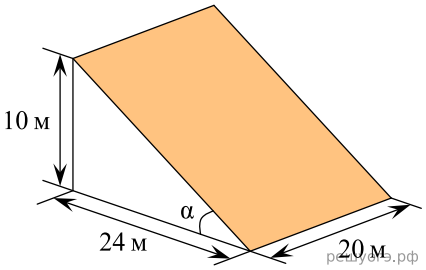
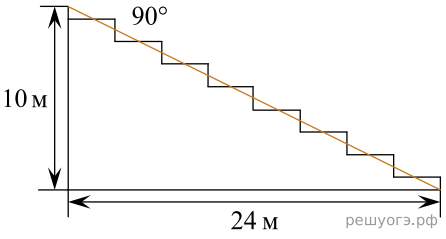
12. Земледелец решил устроить террасы на своем участке (см. рисунок ниже), чтобы выращивать рис, пшено или кукурузу. Строительство террас возможно, если угол склона (уклон) не больше 50% (тангенс угла склона α, умноженный на 100%). Удовлетворяет ли склон холма этим требованиям? Сколько процентов составляет уклон? Ответ округлите до десятых.