Вариант № 401690

Установите соответствие между графиками функций и формулами, которые их задают.

ГРАФИКИ

А)

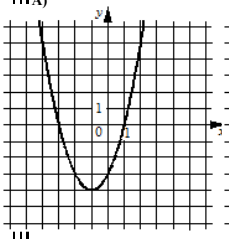

Б)

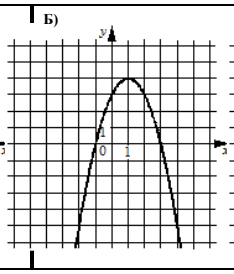

В)

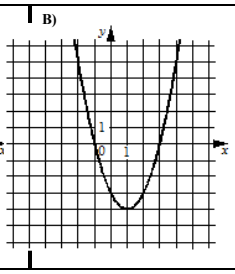

ФОРМУЛЫ

1) $y = x^2 + 2x - 3$	2) $y = x^2 - 2x - 3$	3) $y = -x^2 + 2x + 3$